La Météo des Écoles

Relevé météorologique :

LIEU : Écolothèque à St-Jean-de-Védas

DATE : 12-12-2018 **HEURE :** 9h

État du ciel : **pluie**

Nuages observés : **nimbostratus**

Température : **5** °C

Direction du vent
(entoure)

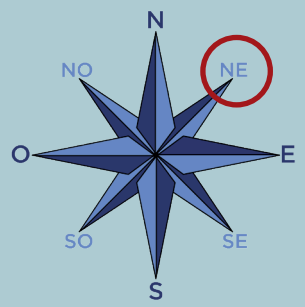

Force du vent
(entoure)

0 1 2 3 4

5 6 7 8 9

10 11 12

Pression atmosphérique : **1008** hPa

Pluviométrie : **2** mm

Mon carnet météo

Pour chacun des pictogrammes,
écris l'état du ciel qu'il représente :

orage

nuageux avec éclaircies

couvert

neige

brouillard

ensoleillé

variable avec averses

pluie

La Météo des Écoles

Complète le tableau pour chaque instrument de mesure :

	Nom	Fonction	Mode d'utilisation
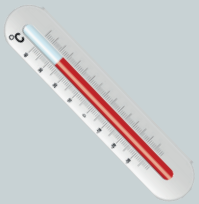	le thermomètre	Il sert à mesurer... **la température.**	On doit le placer... **à l'ombre et à l'abri des précipitations.**
	la girouette	Elle sert à mesurer... **la direction du vent.**	On doit la placer... **dans un endroit dégagé.**
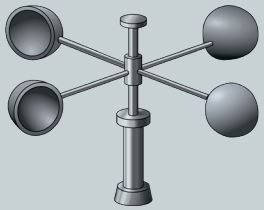	l'anémomètre	Il sert à mesurer... **la force du vent.**	On doit le placer... **dans un endroit dégagé.**
	le pluviomètre	Il sert à mesurer... **les précipitations.**	On doit le placer... **dans un endroit dégagé.**
	le baromètre	Il sert à mesurer... **la pression atmosphérique.**	On doit le placer... **à l'intérieur ou dans un abri pour protéger l'instrument.**